Eindtoets voor ouders 2012

Eindtoets Basisonderwijs Groep 8

Cito heeft dit opgavenboekje gemaakt om ouders te informeren over de inhoud van de Eindtoets Basisonderwijs.
De opgaven zijn eerder gepubliceerd in de Eindtoets Basisonderwijs 2011.
De scholen zijn vrij om van dit boekje kopieën te maken.

zeker weten

Taal

Opgave 1 hoort bij de tekst die hieronder staat. De tekst is een fragment van het artikel 'Wat een kick!' van Nick Kivits. Lees eerst de tekst en maak daarna de opgave.

1 **Wat een kick!**

2 **Aan een groot elastiek van een hijskraan**
3 **jumpen. Met een parachute op 3,5 kilometer**
4 **hoogte uit een vliegtuig springen. Of in een**
5 **metershoge achtbaan stappen. Heel veel**
6 **mensen doen het. Wat een kick! Maar waar**
7 **komt dat heftige gevoel vandaan?**

8 In een achtbaan of aan een bungeejumptouw
9 word niet alleen jij rondgeslingerd, maar ook je
10 bloed. Je hart trekt sneller samen, waardoor je
11 bloed sneller rondgepompt wordt.
12 Je hersenen krijgen zo meer bloed, zodat je
13 scherper kunt denken. Ook je hart, longen en
14 grote spieren presteren beter. Dat komt allemaal
15 door een stof die adrenaline heet. Adrenaline
16 wordt aangemaakt in je bijnieren.
17 Die zitten onder in je rug. Het komt vrij als je een
18 kick krijgt, dus als je spanning voelt. Maar ook als
19 je pijn hebt, boos bent of sport.

Opgave 1
Wat wil de schrijver **vooral** met deze tekst?

Hij wil de lezers …
A informatie geven over gevaarlijke sporten.
B informatie geven over het effect van adrenaline.
C overhalen vaker naar een pretpark te gaan.
D zijn mening geven over aparte sporten.

De opgaven 2 en 3 bestaan uit vier zinnen.
De vraag is steeds: In welke zin is het dikgedrukte woord fout gespeld?

Opgave 2
A De kat van de buren komt uit het **asiel**.
B Hoeveel **calorieën** zitten er in een glas water?
C Mijn **collega's** op het werk zijn heel aardig.
D Wie van jullie groep eet het **gezonst**?

Opgave 3
A De **gesmolten** chocola plakt aan mijn vingers.
B De hongerige leeuw **verslondt** het vlees.
C Dit apparaat **registreert** het aantal dozen.
D Ik **werd** voor mijn grote zus aangezien.

In opgave 4 is de vraag:
Wat is … ?
Het gaat daarbij om de betekenis van het woord dat dikgedrukt is.

Opgave 4
Wat is **bedwingen**?

1 afspreken dat je iets extra's krijgt
2 bepaalde gevoelens onderdrukken

A alleen 1 is juist
B alleen 2 is juist
C 1 en 2 zijn beide juist
D 1 en 2 zijn beide onjuist

Opgave 5 hoort bij een tekst met fouten. Lees eerst de tekst en maak daarna de opgave.

Teun (11 jaar) is lid van Greenpeace. Hij schrijft een brief aan de krant over het vissen op kabeljauw. Teun moet de brief nog wel nakijken en verbeteren.

Beste lezers,

Ik ben Teun en ik ben 11 jaar. Ik ben lid van een Greenteam van Greenpeace. Dat is een groep kinderen die samen van alles doen voor het milieu. Met ons Greenteam hebben we vorige week de Sirius bezocht, het actieschip van Greenpeace dat in de haven van Amsterdam lag. Dat was heel leuk, want we mochten overal kijken, zoals in de kombuis, de stuurhut en de machinekamer. Wat niet zo leuk was, was dat we te horen kregen dat de kabeljauw wordt met uitsterven bedreigd. En daarom schrijf ik deze brief. Ik hoop dat mensen die dit lezen, meehelpen de kabeljauw te beschermen, want ik vind het erg wat er gebeurt.

Groningen, Teun de Vries



Opgave 5

Lees: *Wat niet … uitsterven bedreigd.* (r. 11 t/m 12)
Wat kan Teun het best doen met: *de kabeljauw wordt met uitsterven bedreigd*?

A Zo laten staan.
B Vervangen door: de kabeljauw met uitsterven wordt bedreigd
C Vervangen door: met uitsterven de kabeljauw wordt bedreigd
D Vervangen door: wordt de kabeljauw met uitsterven bedreigd

Ga door op de volgende bladzijde

Rekenen

Opgave 6

Caroline wil 500 ml soep maken.
Hoeveel soepblokjes heeft zij daarvoor nodig?

A 2
B 4
C 8
D 20

Opgave 7



Deze fiets kost zonder BTW € 601,50.
Er komt nog 19% BTW bij.
Hoeveel moet er ongeveer voor deze fiets betaald worden?

A € 120,-
B € 620,-
C € 630,-
D € 720,-

Opgave 8



Remi fietst iedere dag naar school, 5 dagen per week, 40 weken per jaar. Naar school fietsen en weer terug naar huis is samen 4,8 km.
Hoeveel km ongeveer fietst Remi per jaar van huis naar school en terug?

A 200 km
B 800 km
C 1000 km
D 2000 km

Opgave 9

Shanta koopt een blouse, een hemd en een broek.
Ze betaalt met 100 euro.
Hoeveel krijgt Shanta terug?

A € 39,20
B € 39,80
C € 40,20
D € 60,80

Opgave 10



Berend legt tegels op het terras. Als hij 120 tegels heeft gelegd is $\frac{3}{4}$ deel klaar.
Hoeveel tegels komen er in totaal op het terras?

A 90 tegels
B 150 tegels
C 160 tegels
D 360 tegels

Studievaardigheden

Frisdrank met bubbels
Zelf frisdrank met bubbels maken is heel makkelijk en ook nog eens lekker.
Je perst een citroen uit. Doe het sap in een glas.
Haal de pitjes van de citroen er maar uit, want frisdrank met pitjes is niet lekker. Doe 1 deciliter water en 3 theelepeltjes suiker bij het sap in het glas. Pak een lepel en roer het citroensap, het water en de suiker goed door elkaar. Roer 1 theelepel bakpoeder door het mengsel en je glas is gevuld met een heerlijk bruisend drankje. Je kunt het echt drinken. Het bakpoeder en de citroen vormen samen een gas dat opstijgt in de vorm van belletjes. Bakpoeder kun je in de supermarkt kopen. Het ligt bij de bakproducten. Als je het niet vinden kunt, vraag je aan je moeder een zakje bakpoeder.

Opgave 11
Bestudeer bovenstaande tekst.
Welke opdracht kun je ook overslaan bij het maken van frisdrank met bubbels?

A Doe 1 deciliter water en nog 3 theelepeltjes suiker bij het sap.
B Haal de pitjes van de citroen er maar uit.
C Je perst een citroen uit.
D Roer nog 1 theelepel bakpoeder door het mengsel.

Opgave 12
Ontbijtenquête

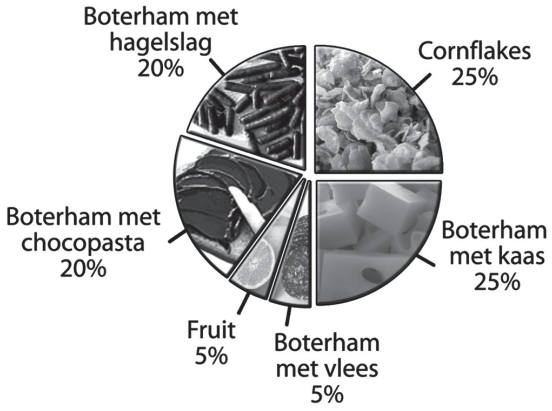

Bij Amy in de klas hebben de kinderen meegedaan aan een ontbijtenquête.
Kijk naar de cirkelgrafiek.
Welk deel van de kinderen eet bij het ontbijt brood met zoet beleg?

A 20%
B 40%
C 45%
D 70%

Opgave 13
Jaarafsluiting

jaarafsluiting

jongens	jaar	meisjes
	2005	
	2006	
	2007	

= twee kinderen kiezen voor het discofeest
= twee kinderen kiezen voor het musicalfeest

Ieder jaar mogen de kinderen van groep 8 van basisschool Arcade kiezen voor een musical of een discofeest om het jaar mee af te sluiten. In 2007 hebben de meeste kinderen voor het discofeest gekozen. Kijk naar bovenstaande tabel. De keuze van de jongens is al ingevuld.
Wat kan er in het lege hokje staan?

A
B
C
D

Kies A, B, C of D.

Opgave 14
Filmladder

Rosalie wil graag op zondagmiddag naar de film. Ze wil naar de film die het vroegst draait.
Naar welke film zal Rosalie gaan?

Kies A, B, C of D.

Borkum

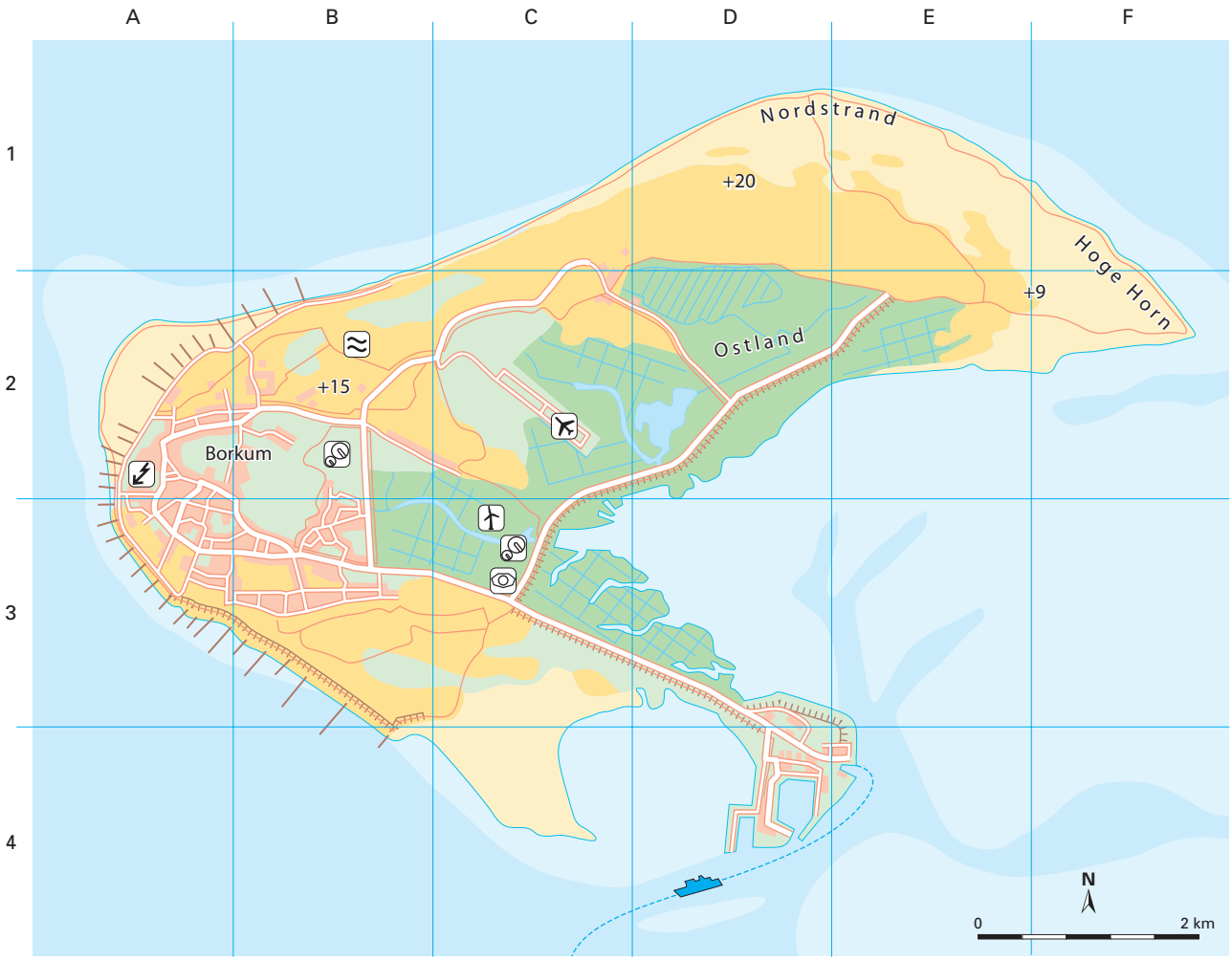

Legenda:

- Diep water
- Ondiep water
- Strand
- Duinen
- Weiland
- Kwelder
- Dijk
- Golfbreker
- Bebouwing
- Weg
- Pad
- Veerboot
- Drinkwaterreservoir
- Waterzuivering
- Energiecentrale
- Windmolen
- Afvalverzamelpunt
- Vliegveld

Opgave 15

Zie Kaart: Borkum

Dijken en duinen houden het eiland droog.
Welk deel van het eiland is door mensen extra beschermd tegen de kracht van hoge golven?

A het noorden
B het oosten
C het westen
D het zuiden

Ga door op de volgende bladzijde

Wereldoriëntatie

Opgave 16
Pupillen

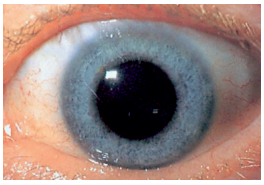

oog van Koen

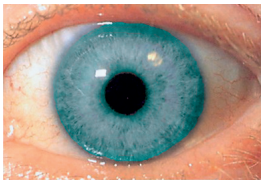

oog van Pauline

De pupil in het oog van Koen ziet er anders uit dan die in het oog van Pauline.
Waarmee heeft dat verschil te maken?

A Koen is een jongen en Pauline is een meisje.
B Koen kijkt door een leesbril en Pauline niet.
C Koen kijkt in het donker en Pauline in het licht.
D Koen kijkt naar iets dat dichtbij is en Pauline kijkt in de verte.

Opgave 17
Huisspitsmuis

Tussen 1967 en 1982 werd in de Achterhoek onderzocht welke dieren in de herfst door kerkuilen gegeten werden. De kerkuil bleek vooral veldmuizen te eten. Uit nieuw onderzoek in de herfst van 2001 bleek dat de huisspitsmuis het belangrijkste voedsel was geworden van kerkuilen.
Op welke manier zijn de onderzoekers dit te weten gekomen?

A door 's avonds en 's nachts met een verrekijker de kerkuilen in de gaten te houden
B door de inhoud van de braakballen van de kerkuilen te bekijken
C door in de herfst het aantal huisspitsmuizen te tellen
D door te onderzoeken wat huisspitsmuizen eten

Opgave 18
Stad aan het water

Welke stad en welk water zie je?

A Amersfoort aan de Barneveldse Beek
B Nijmegen aan de rivier de Waal
C Enkhuizen aan het IJsselmeer
D Den Haag aan de Noordzee

Opgave 19
Uit de TV-gids

22.34	**Sesjun** Serie muziekprogramma's; afl.: 'The Texas Guitar Singers'
23.12	**Socutera**
23.55	**NOS-Studio Sport**
ca. 23.30	**NOS-Journaal**
1.55-6.30	**WK Allround schaatsen;** rechtstreekse beelden van de WK allround schaatsen in Nagano Japan.

Waarom was de uitzending van de wereldkampioenschappen schaatsen 's nachts?

A Er is overdag geen tijd meer vrij op de televisie om de schaatswedstrijd uit te zenden.
B Het is in Japan al dag als het in Nederland nog nacht is.
C Het is in Japan alleen 's nachts koud genoeg om te kunnen schaatsen.
D In Japan worden belangrijke sportwedstrijden altijd 's nachts uitgezonden, omdat de meeste Japanners pas laat van hun werk thuiskomen.

Opgave 20
Oude gebouwen

1

2

3

4

In veel steden vind je gebouwen uit de late middeleeuwen van 1200-1500 (tijd van steden en staten).
Welke gebouwen zijn in die tijd gebouwd?

A 1 en 3
B 1 en 4
C 2 en 3
D 2 en 4

Einde van deze toets

Primair onderwijs
Cito Volgsysteem (LOVS)

Eindtoets voor ouders
Eindtoets Basisonderwijs
Groep 8

Lijst van goede antwoorden

1	B	11	B
2	D	12	B
3	B	13	C
4	B	14	C
5	B	15	C
6	A	16	C
7	D	17	B
8	C	18	B
9	A	19	B
10	C	20	A

Cito
Amsterdamseweg 13
Postbus 1034
6801 MG Arnhem
T (026) 352 11 11
F (026) 352 13 56
www.cito.nl

Klantenservice
T (026) 352 11 11
F (026) 352 11 35
klantenservice@cito.nl

Fotografie: Ron Steemers